

小／算数／２年／数と計算／
３．２けたの数のたし算のひっ算／理解シート

２４＋３５の　ひっ算は，どうすれば　いいの

くらいを　たてに　そろえて，計算すれば　いいんだよ。
一のくらい，十のくらいの　じゅんに　たし算をすれば　いいんだよ。

24＋35の　ひっ算を　します。

	十のくらい	一のくらい
24	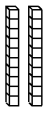	
	10が2こ	1が4こ
35	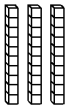	
	10が3こ	1が5こ
24 ＋35	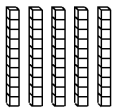 2こと3こで5	 4こと5こで9
答え	5	9

① 図に　かいて，ひっ算の　しかたを　考えます。

㋐ くらいを　たてに　そろえて　かきます。

㋑ 一のくらい
4と　5を　あわせると
9。（4＋5＝9）

㋒ 十のくらい
2と　3を　あわせると
5。（2＋3＝5）

24＋35＝59

㋐

	＋	－
	2	4
＋	3	5

くらいを　たてに
そろえてかく。
一のくらいから
計算する。

㋑

	＋	－
	2	4
＋	3	5
		9

一のくらいの　計算
4＋5＝9。
9を　一のくらいに
かく。

㋒

	＋	－
	2	4
＋	3	5
	5	9

十のくらいの　計算
2＋3＝5。
5を　十のくらいに
かく。

無断複製・転載・翻訳を禁ず　©GAKKEN　