


小／算数／２年／数量関係／
１．ひょうとグラフ／理解シート

# たんじょう日しらべの ひょうから,グラフの かき方を 教えて



人数の　１人を，○１こと　考えます。よこに　月を　かくんだよ。たての　れつに，その　月の　人数だけ，○を　かけばいいんだよ。

◆ 下の　ひょうから，たんじょう日しらべの　グラフを　かいてみます。

たんじょう日しらべ

| 生まれた月 | 4月 | 5月 | 6月 | 7月 | 8月 | 9月 | 10月 | 11月 | 12月 | 1月 | 2月 | 3月 |
|---|---|---|---|---|---|---|---|---|---|---|---|---|
| 人数（人） | 3 | 2 | 0 | 3 | 2 | 5 | 4 | 2 | 1 | 4 | 2 | 3 |

①　上の　ひょうから，○を　つかって　グラフに　かきます。

たんじょう日しらべ

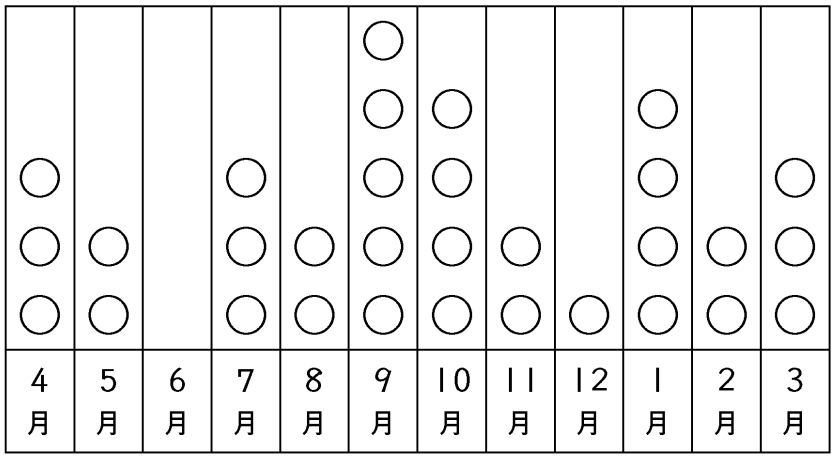


②　9月は，8月より　何人　多いですか。

〔３ 人〕

6月は　生まれた　人は　0人だから　何もかきません。

〔おうちの方へ〕　グラフをかきます。月別の人数だけ○をかきます。
6月は0人だから，何もかかなくてよいです。

無断複製・転載・翻訳を禁ず　©GAKKEN　B032401050