

小／算数／３年／数と計算

１０．１けたの数をかけるひっ算／理解シート

全体の長さをもとめる文章で書かれた問題のとき方を教えて

文章で書かれた問題は，書かれていることを，図に表すと，式がかんたんにつくれるようになるんだよ。



下のような問題をといてみます。

> １本が２ｍ４０㎝のなわとびを６本切り取りたいと思います。ぜんぶで何ｍ何㎝いりますか。

図に表す▶

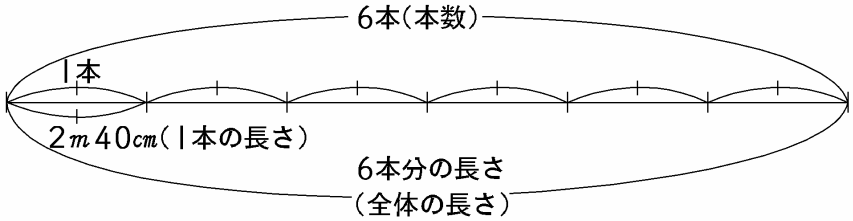

考え方▶ ①　全体の長さは，（１本の長さ）に（本数）をかければよいことがわかります。

②　全体の長さを，下のことばの式にあてはめてもとめます。

２ｍ４０㎝は，㎝単位の長さに直します。

２ｍ４０㎝＝２４０㎝

（１本の長さ）×（本数）＝（全体の長さ）

式…　２４０　×　６　＝　１４４０

１４４０㎝＝１４ｍ４０㎝

答え…１４ｍ４０㎝

無断複製・転載・翻訳を禁ず　©GAKKEN