

小／算数／３年／図形
４．円と球　／理解シート

球とは，どんな形なの

「ボールの形」のことを，「球」というんだよ。

1

球の形を調べてみます。

右の図のような形を，「球」といいます。

おぼえておこう　球は，どこから見ても円に見えます。



2

球を切った切り口の形を調べてみます。

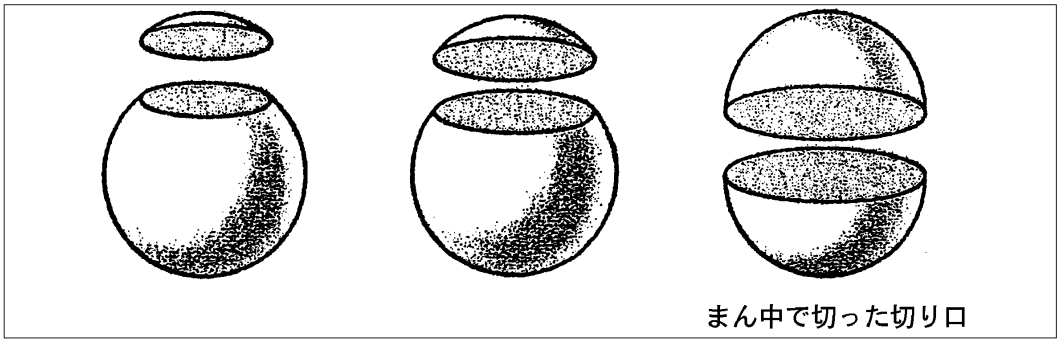

① 上の図のように，球を切った切り口は，どれも円になっています。

② 切り口の円がいちばん大きくなるのは，まん中で切ったときです。

無断複製・転載・翻訳を禁ず　©GAKKEN