6年

算数 学習相談		学研教育情報資料センター 小／算数／6年／図形／ 立体／理解シート

角柱には，どのような立体があるの

角柱には，三角柱，四角柱，五角柱などがあるんだよ。
角柱の２つの底面は，合同な多角形で，平行になっているよ。

1 次の角柱の名前を覚えましょう。

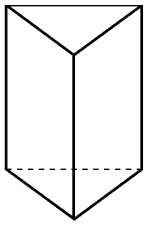

三角柱
（底面が三角形）

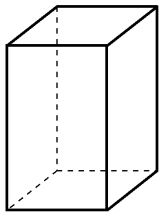

四角柱
（底面が四角形）

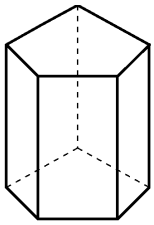

五角柱
（底面が正五角形）

2 角柱の部分の名前を，覚えておきましょう。

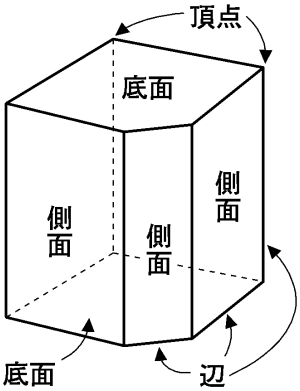

- 頂点（面が3つ合わさって，とがったところ。）
- 辺　（面と面が合わさったところ。）
- 側面（角柱では底面に垂直（直角）に交わっている面。）
- 底面（角柱では，底面は2つ。）
  2つの底面は合同で，平行になっている。
  底面と側面は，垂直になっている。
  底面と側面の辺は，垂直になっている。

無断複製・転載・翻訳を禁ず　©GAKKEN